Colegio San Nicolás de Canal Chacao

ACTIVIDAD DE MATEMÁTICA 2º A - B

OBJETIVO: COMPARAR NÚMEROS HASTA 100 Y CALCULAR SUMAS DE NÚMEROS.

PROFESORA: CLAUDIA NÚÑEZ VÁSQUEZ

MATERIALES

Sumo Primero
2°
básico
Texto del Estudiante
1
TOMO

Sumo Primero
2°
básico
Cuaderno de Actividades
1
TOMO

RECUERDA: PARA COMPARAR NÚMEROS UTILIZA LOS SIGNOS.

>	<	=
Mayor	Menor	Igual

PÁGINA 13 DEL TEXTO DEL ESTUDIANTE

En la actividad 2, escribe en los cuadrado el signo que corresponda y luego ubica los números en la recta númerica.



Signos >y <

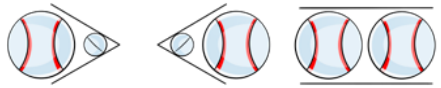

1 Comparemos.

a) 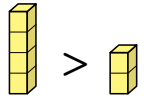

4 > 2

El 4 es más grande que el 2.

b) 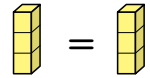

3 = 3

El 3 tiene el mismo tamaño que el 3.

c) 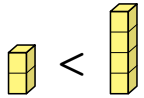

2 < 4

El 2 es más pequeño que el 4.

Para comparar cantidades más grandes o más chicas, usamos los signos > y < para indicar "menor que", "mayor que" e "igual".

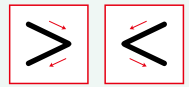

2 ¿Qué número es mayor? Represéntalos en la recta numérica usando **>** o **<**.

a) 64 ☐ 69

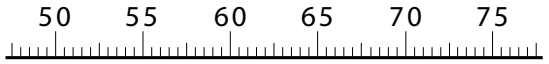

b) 38 ☐ 58

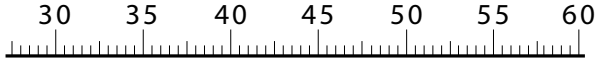

c) 85 ☐ 95

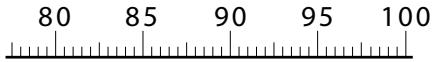

8 Los signos de > y <

Libro Texto Pág. 13 — 15 minutos

1 Escribe los signos >, < y =.

a)

6 ☐ 1

b)



20 ☐ 24

c)

5 ☐ 5

2 Escribe los signos > y <. Ubica los números en la recta numérica.

a) 42 ☐ 52

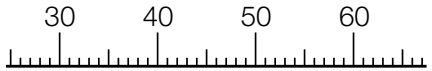

b) 65 ☐ 56

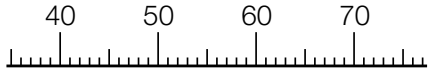

3 Escribe los signos > y <.

a) 20 ☐ 30

b) 32 ☐ 23

c) 5 ☐ 50

d) 74 ☐ 47

REALIZA LA PÁGINA 8 DEL CUADERNO DE ACTIVIDADES

Desarrolla la página 14 del texto del estudiante.

Ejemplo: Daniela tiene 10 pulseras y Belén 20

Expresión númerica: 10 + 20 = 30



Sumar

1 Carola recortó 20 estrellas y Ana 30.

¿Cuántas recortaron en total?

a) Escribe una expresión.

b) Pensemos en cómo encontrar la respuesta.

Decenas	Unidades

Respuesta: ____ estrellas

Ejercicio

a) 40 + 30 **b)** 20 + 10 **c)** 10 + 80 **d)** 30 + 70

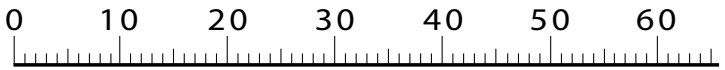

2 Emilio tiene 23 lápices.

Su hermana mayor le dio 6 más.

¿Cuántos lápices tiene?

a) Escribe una expresión.

b) Pensemos en cómo encontrar el resultado.

Decenas	Unidades
	

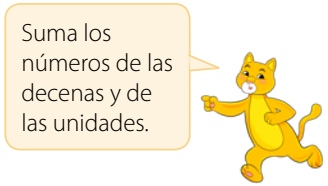

Respuesta: ____ lápices

Ejercicio

a) 42 + 1 **c)** 25 + 4 **e)** 36 + 2 **g)** 70 + 5

b) 52 + 4 **d)** 33 + 6 **f)** 3 + 21 **h)** 9 + 60

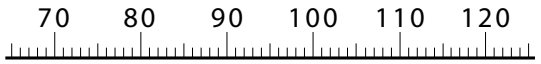

PÁGINA 15 DEL TEXTO DEL ESTUDIANTE.

Puedes resolver las sumas en tu cuaderno de matemática.

No olvides de color el signo = cuando las resuelvas.

REALIZA LA PÁGINA 9 DEL CUADERNO DE ACTIVIDADES

9 Números hasta 100

Libro Texto Pág. 14 a Pág. 15 — 10 minutos

1 Manuel tiene 50 hojas de papel lustre y Matilde tiene 40. ¿Cuántos papeles tienen en total?

a) ☐ + ☐

b) Piensa cómo encontrar el resultado.

decenas	unidades
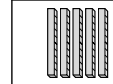	
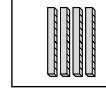	

Suma los grupos de 10 5 + ☐

c) ¿Cuántos papeles hay en total? ☐

2 Suma.

a) 60 + 20 = ☐

b) 80 + 20 = ☐

3 Tengo 34 pegatinas. Mi hermana mayor me dio 3. ¿Cuántas tengo en total?

a) ☐ + ☐

b) Piensa cómo encontrar el resultado.

decenas	unidades

Suma unidades con unidades y decenas con decenas.

3 + 0 = ☐ 4 + 3 = ☐

c) ¿Cuántas pegatinas tengo en total? ☐

4 Suma.

a) 71 + 4 = ☐

b) 5 + 23 = ☐

REALIZA LA SIGUIENTE HOJA DE TRABAJO

PÉGALA O ESCRÍBELA EN TÚCUADERNO

Colegio San Nicolás de Canal Chacao

Profesora: Claudia Núñez Vásquez

Hoja de trabajo: comparación de números

Objetivo: comparar números hasta 100 utilizando signos y calcular sumas.

1.- Escribe la cantidad de elementos en cada caso y encierra el símbolo >, < o =, según corresponda.

a.

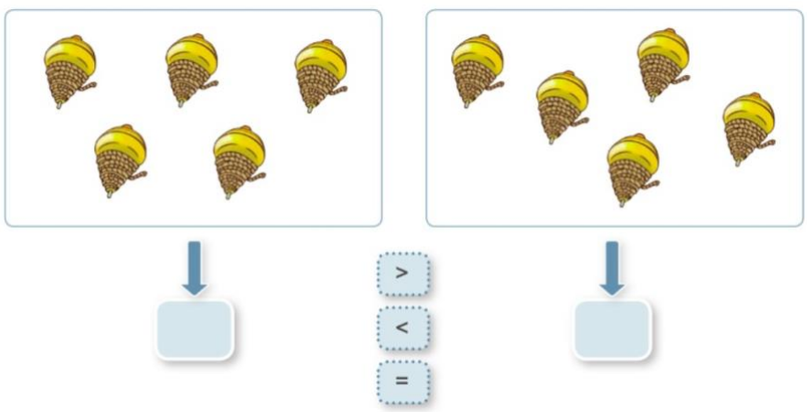

b.

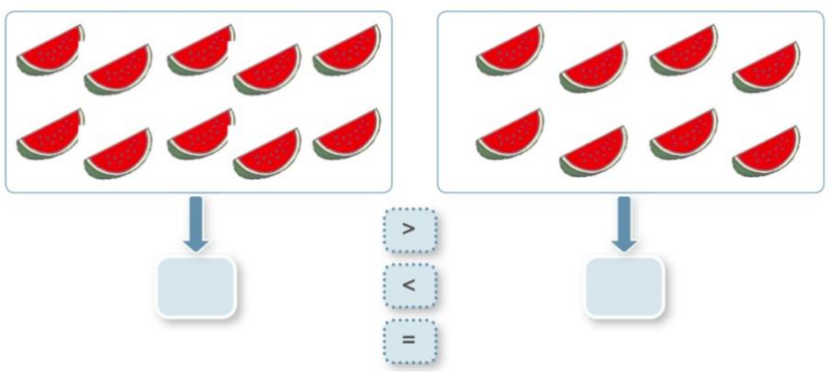

c.

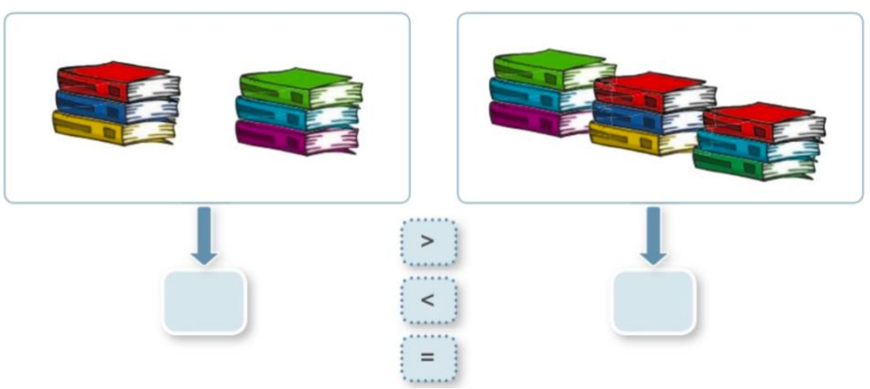

2.- Escribe el símbolo >, < o =

a. 26 ◯ 16

c. 15 ◯ 18

b. 31 ◯ 31

d. 29 ◯ 20

3.- Une cada pescador con el pez que corresponde.

4.- Resuelve las adiciones.

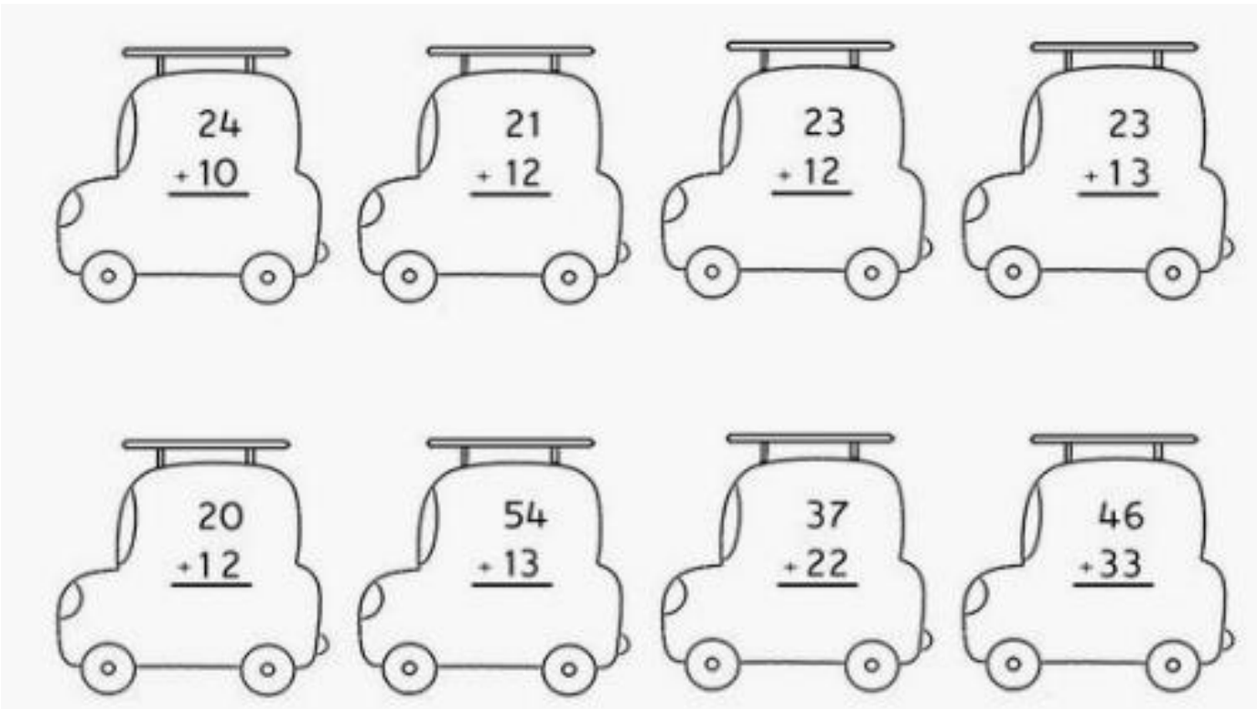

5.- Realiza los tickets de salida.

OA 3: Comparar y ordenar números del 0 al 100.

Ticket de salida pág. 13

Completa con > y <.

45 ☐ 54

90 ☐ 99

30 ☐ 33

OA 9: Demostrar que comprenden adición y sustracción del 0 al 100

Ticket de salida pág. 15

Suma.

56 + 2 = ☐

56 + 3 = ☐

53 + 5 = ☐

¡BUEN TRABAJO!

- No olvides de decirle a tu padres que manden fotos de las actividades realizadas a mi correo cnunez@colegiosannicolas.cl
- Nos estamos viendo pronto, abrazos para ustedes.